Nombres et quantités : de 0 à 70

1 Complète avec le bon nombre :

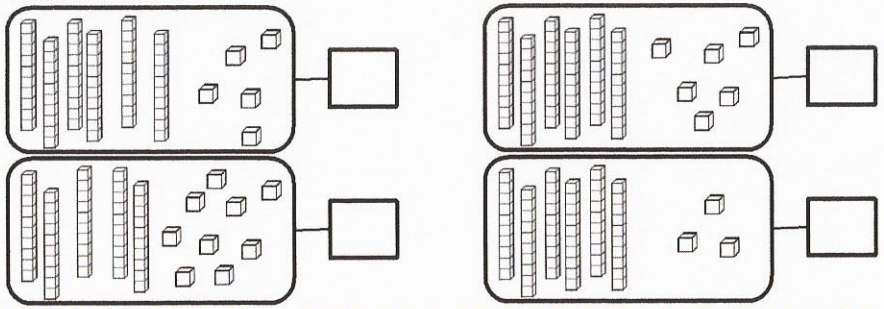

2 Complète la bande numérique:



Nombres et quantités : de 0 à 70

1 Relie les nombres à leur place sur la droite graduée

28 48 44 59 66

30 40 50 60 70

2 Dessine le nombre en barres

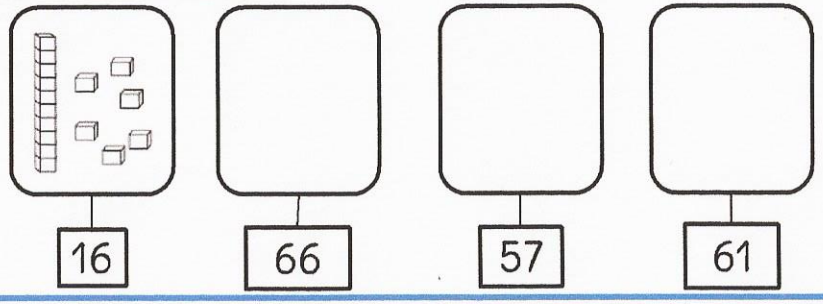

Nombres et quantités : de 0 à 70

1 Complète les cases grises du tableau des nombres

	21								
						36			
		42							
50					55				
									69

2 Colorie les pièces et billets correspondants à la somme dans la tirelire :

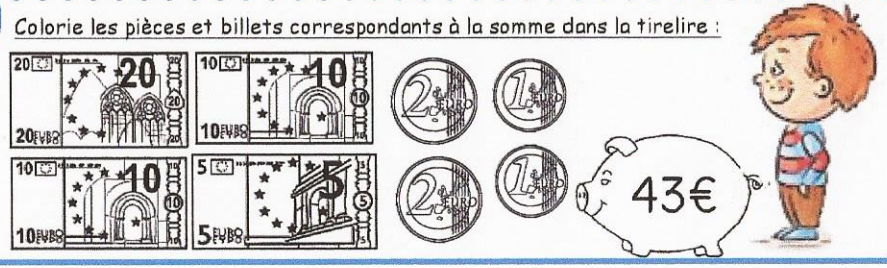

Nombres et quantités : de 0 à 70

1 Complète avec le bon nombre :

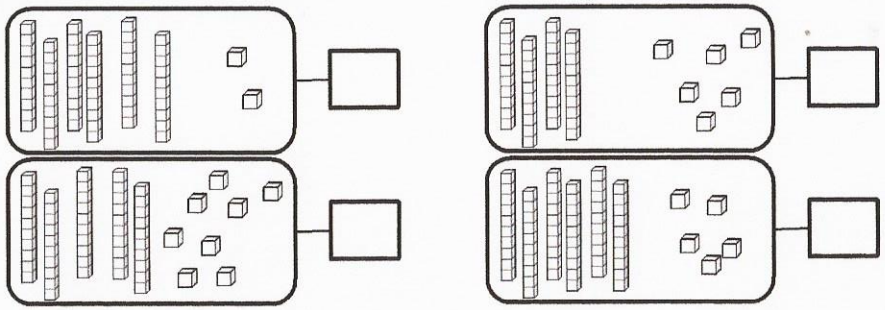

2 Complète la bande numérique: