Assiya 19/05

Sens des opérations
Représenter une situation.
Identifier l'opération.

Problèmes
Fiche n°

lundi | mardi | mercredi | jeudi | vendredi | samedi | dimanche | 19/05

1 petit papa

J'entoure dans le texte ce que je vais dessiner, je complète le dessin, puis je réponds.



Léna a un paquet de 12 images. Elle met autant d'images dans chacune des **2 enveloppes.**

♥ **Combien d'images y aura-t-il par enveloppe ?**

♦ 6 + 6 = 12

♣ Il y aura 6 images.

2

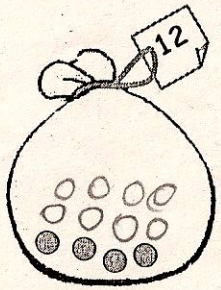

Il faut 12 billes dans le sac. Mathys a déjà mis **4 billes.**

♥ **Combien en manque-t-il ?**

♦ 4 + 8 = 12

♣ Il manque 8 billes.

3



Maman distribue 12 gâteaux à ses **3 enfants.**

♥ **Combien vont-ils avoir de gâteaux chacun ?**

♦ 4 + 4 + 4 = 12

♣ Chaque enfant aura 4 gâteaux

Pour t'aider : Regarde ta leçon — Utilise des outils (BN, buchettes...)

Assiya

Sens des opérations
Représenter une situation.
Identifier l'opération.

Problèmes
Fiche n°

lundi | mardi | mercredi | jeudi | vendredi | samedi | dimanche | 18/05

1 petit papa

J'entoure dans le texte ce que je vais dessiner, je complète le dessin, puis je réponds.

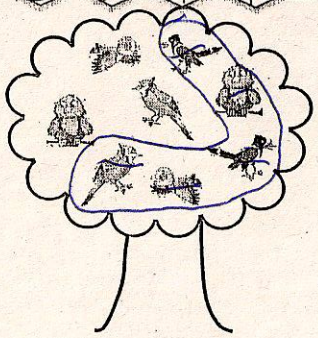

8 oiseaux se sont posés dans l'arbre.
5 oiseaux vont s'envoler.

♥ **Combien en restera-t-il dans l'arbre ?**

♦ 8 - 5 = 3

♣ Il restera 3 oiseaux.

2

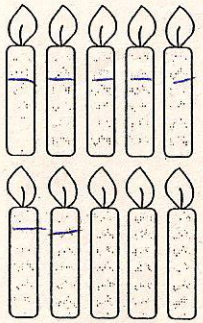

Lylou a allumé **10 bougies** pour son anniversaire, elle souffle mais n'éteint que 7 bougies.

♥ **Combien de bougies restent allumées ?**

♦ 10 - 7 = 3

♣ Il reste 3 bougies allumées.

3

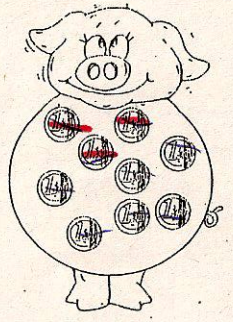

Dans la tirelire il y avait 9 €. Jules a pris 3€ pour s'acheter un livre.

♥ **Combien reste-t-il dans la tirelire ?**

♦ 9 - 3 = 6

♣ Il reste 6 €.

Pour t'aider : Regarde ta leçon — Utilise des outils (BN, buchettes...)